評価

月　　日

分数 大きさくらべ

名前

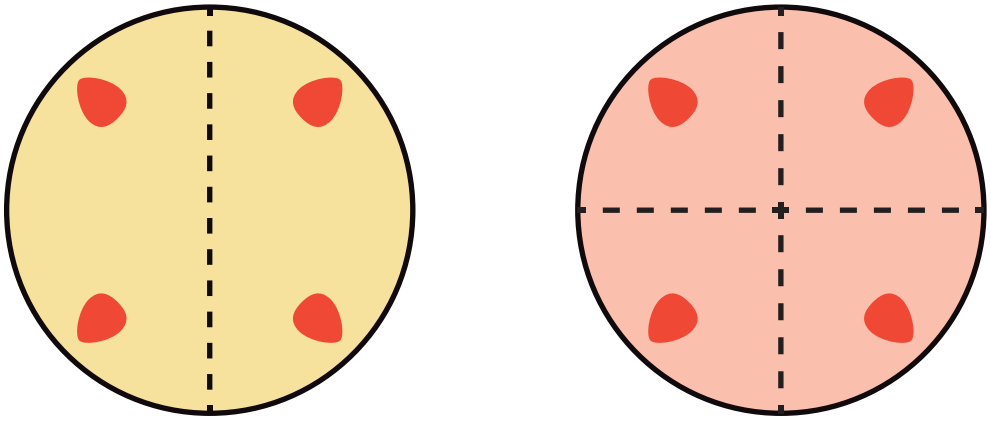

1 大きい方に丸をつけましょう。

① $\frac{1}{2}$ と $\frac{1}{4}$

② $\frac{1}{2}$ と $\frac{3}{4}$

③ $\frac{1}{4}$ と $\frac{2}{4}$

2 □の数と同じ大きさをえらんで丸をつけましょう。

① $\frac{1}{2}$　$\frac{1}{4}$ ・ $\frac{2}{4}$

② $\frac{2}{2}$　1 ・ $\frac{3}{4}$

3 つぎの数を小さい順にならべましょう。

$\frac{3}{4}$ ， $\frac{1}{2}$ ， 1

まめつぶワーク
(http://mameppu.com/)

当プリントはサイト内で無料ダウンロードできます。データの二次配布、有償配布は禁止です。

2

分数 大きさくらべ

評価

月　日

名前

4 等分

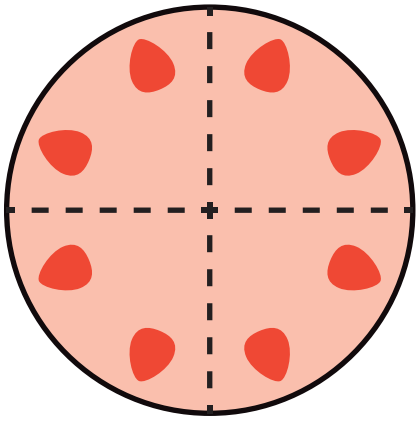

8 等分

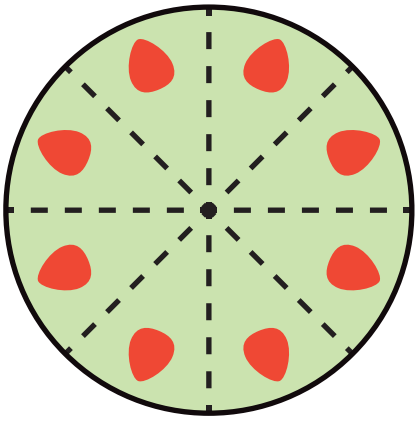

1 大きい方に丸をつけましょう。

① $\frac{1}{4}$ と $\frac{1}{8}$

② $\frac{1}{8}$ と $\frac{3}{8}$

③ $\frac{3}{4}$ と $\frac{7}{8}$

2 □の数と同じ大きさをえらんで丸をつけましょう。

① $\boxed{\frac{3}{4}}$　$\frac{6}{8}$ ・ 1

② $\boxed{\frac{2}{8}}$　$\frac{1}{4}$ ・ $\frac{5}{8}$

3 つぎの数を小さい順にならべましょう。

$\frac{2}{4}$, $\frac{3}{8}$, $\frac{6}{8}$

まめつぶワーク
(http://mameppu.com/)
当プリントはサイト内で無料ダウンロードできます。データの二次配布、有償配布は禁止です。

評価 月 日

3 分数 大きさくらべ

名前

5 等分

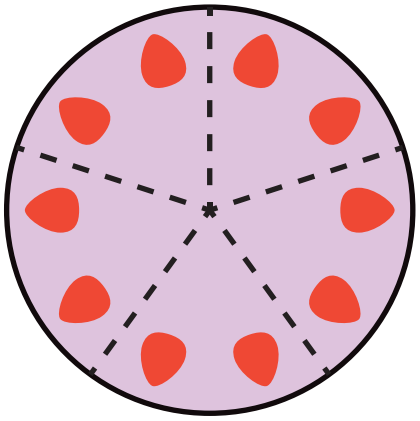

10 等分

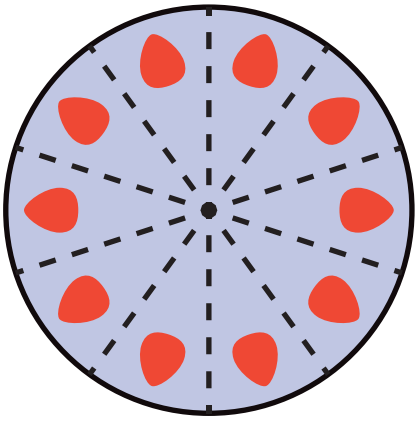

1 大きい方に丸をつけましょう。

① $\frac{1}{5}$ と $\frac{4}{5}$

② $\frac{3}{10}$ と $\frac{6}{10}$

③ $\frac{3}{5}$ と $\frac{3}{10}$

④ $\frac{9}{10}$ と 1

2 □の数と同じ大きさをえらんで丸をつけましょう。

① $\frac{4}{5}$ $\frac{5}{10}$ • $\frac{8}{10}$

② $\frac{4}{10}$ $\frac{3}{10}$ • $\frac{2}{5}$

3 つぎの数を小さい順にならべましょう。

$\frac{1}{5}$, 1 , $\frac{1}{10}$

まめつぶワーク
(http://mameppu.com/)
当プリントはサイト内で無料ダウンロードできます。データの二次配布、有償配布は禁止です。

評価 😄 🙂 ☹

月　　日

4 分数 大きさくらべ

名前

3 等分

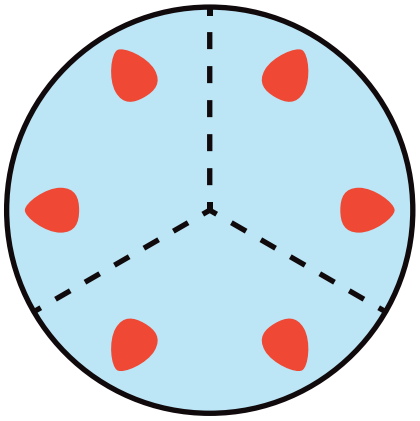

6 等分

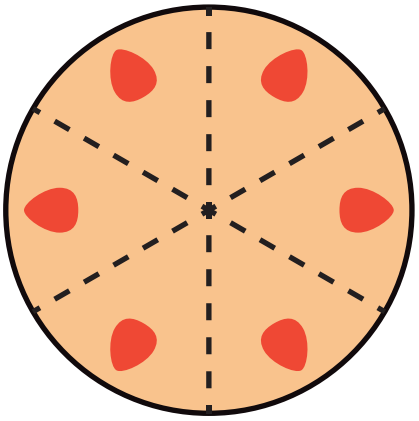

1 大きい方に丸をつけましょう。

① $\frac{1}{3}$ と $\frac{2}{3}$　　② $\frac{3}{6}$ と $\frac{4}{6}$

③ $\frac{2}{3}$ と $\frac{3}{6}$　　④ $\frac{3}{6}$ と $\frac{1}{3}$

2 □の数と同じ大きさをえらんで丸をつけましょう。

① $\boxed{\frac{2}{3}}$　$\frac{2}{6}$ ・ $\frac{4}{6}$

② $\boxed{\frac{6}{6}}$　1 ・ $\frac{1}{3}$

3 つぎの数を小さい順にならべましょう。

$\frac{5}{6}$, $\frac{2}{3}$, $\frac{3}{6}$

まめつぶワーク
(http://mameppu.com/)
当プリントはサイト内で無料ダウンロードできます。データの二次配布、有償配布は禁止です。

評価 😄 🙂 ☹

月　　日

5 分数 大きさくらべ

名前

6 等分

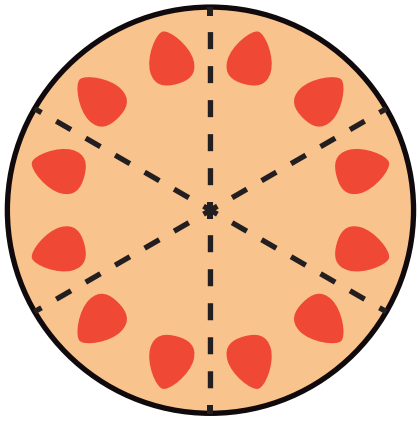

12 等分

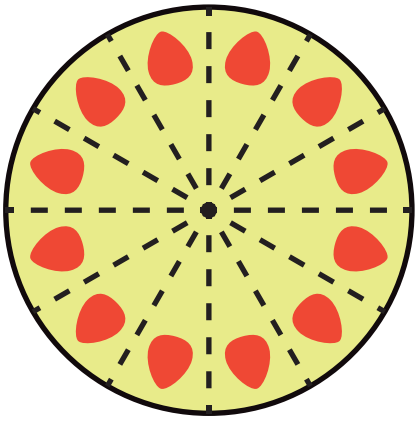

1 大きい方に丸をつけましょう。

① $\frac{1}{12}$ と $\frac{2}{12}$

② $\frac{4}{6}$ と $\frac{3}{6}$

③ $\frac{5}{6}$ と $\frac{5}{12}$

④ $\frac{9}{12}$ と $\frac{4}{6}$

2 □の数と同じ大きさをえらんで丸をつけましょう。

① $\boxed{\frac{2}{6}}$　$\frac{4}{12}$ ・ $\frac{2}{12}$

② $\boxed{\frac{10}{12}}$　$\frac{5}{6}$ ・ $\frac{3}{6}$

3 つぎの数を小さい順にならべましょう。

$\frac{3}{6}$ ， $\frac{7}{12}$ ， $\frac{3}{12}$

まめつぶワーク
(http://mameppu.com/)
当プリントはサイト内で無料ダウンロードできます。データの二次配布、有償配布は禁止です。