3 文字と式

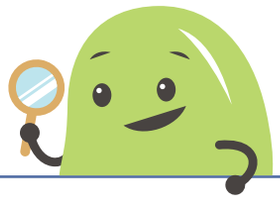

名前

1 つぎの図形の面積を求める式を、㋐～㋒から選んでかきましょう。

㋐ $y=3\times x$	㋑ $y=4\times x\div 2$	㋒ $y=(3+x)\times 4\div 2$

① (　　)

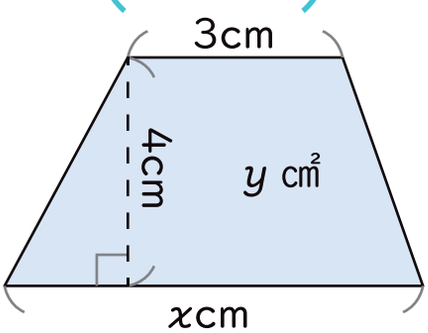

② (　　)

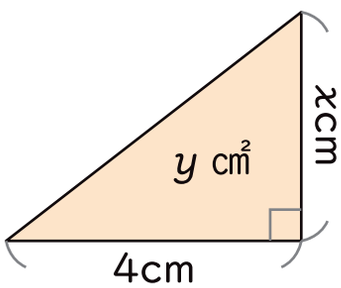

③ (　　)

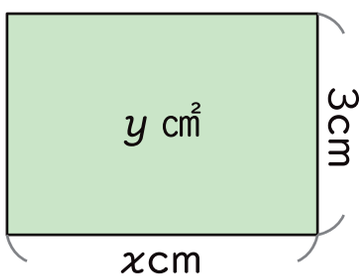

2 1m 120円の布を買うときの代金を調べます。

布の長さをxm、代金をy円として、xとyの関係を表にまとめます。

長さ x(m)	1	2	3	4	5
代金 y(円)					

① 表を完成させましょう。

② xとyの関係を式に表しましょう。(　　)

③ xが15のとき、yの値を求めましょう。(　　)

④ yが2640のとき、xの値を求めましょう。(　　)

まめつぶワーク
(http://mameppu.com/)
当プリントはサイト内で無料ダウンロードできます。データの二次配布、有償配布は禁止です。